সমগ্র শিক্ষা
Samagra Shiksha
সমগ্র শিক্ষা

Under CSR Support by
ipca | Foundation

সপ্তম শ্রেণীৰ বাবে

গণিত

অধ্যায় - ৯

পৰিমেয় সংখ্যা (অনুশীলনী)

অংশ – ৪

পল্লবী পাঠক

समग्र शिक्षा
Samagra Shiksha
সমগ্ৰ শিক্ষা

Under CSR Support by
ipca | Foundation

7. তলৰ পৰিমেয় সংখ্যাবিলাকৰ মাজত থকা 5 টা পৰিমেয় সংখ্যা লিখা: (মনত ৰাখিবা তলৰ প্ৰতিযোৰ পৰিমেয় সংখ্যাৰ মাজত বহুতবোৰ পৰিমেয় সংখ্যা আছে।)

(i) **–1 আৰু 1**

समग्र शिक्षा
Samagra Shiksha
समग्र शिक्षा

Under CSR Support by
ipca | Foundation

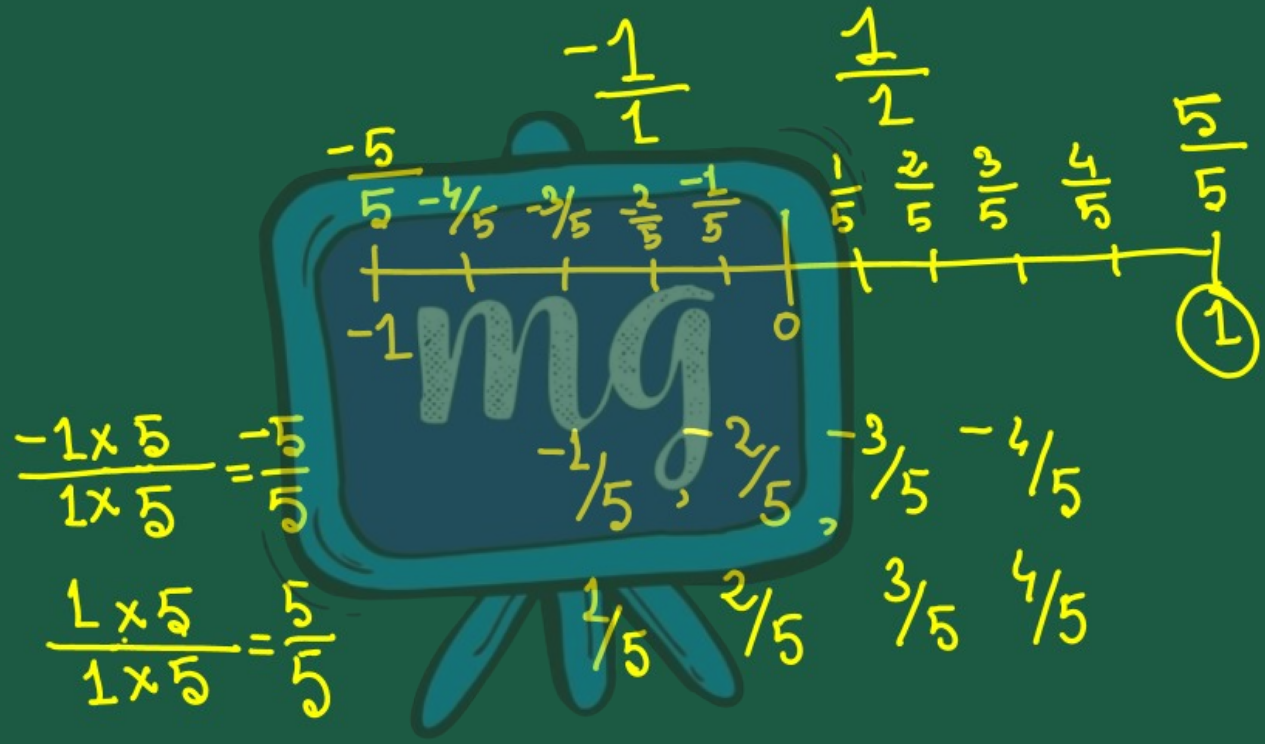

समग्र शिक्षा
Samagra Shiksha
সমগ্ৰ শিক্ষা

Under CSR Support by
ipca | Foundation

7. তলৰ পৰিমেয় সংখ্যাবিলাকৰ মাজত থকা 5 টা পৰিমেয় সংখ্যা লিখা: (মনত ৰাখিবা তলৰ প্ৰতিযোৰ পৰিমেয় সংখ্যাৰ মাজত বহুতবোৰ পৰিমেয় সংখ্যা আছে।)

(ii) $-\frac{2}{4}, \frac{3}{4}$

समग्र शिक्षा
Samagra Shiksha
समग्र शिक्षा

Under CSR Support by
ipca | Foundation

$\frac{-2 \times 5}{4 \times 5} = \frac{-10}{20}$



समग्र शिक्षा
Samagra Shiksha
সমগ্ৰ শিক্ষা

Under CSR Support by
ipca | Foundation

7. তলৰ পৰিমেয় সংখ্যাবিলাকৰ মাজত থকা 5 টা পৰিমেয় সংখ্যা লিখা: (মনত ৰাখিবা তলৰ প্ৰতিযোৰ পৰিমেয় সংখ্যাৰ মাজত বহুতবোৰ পৰিমেয় সংখ্যা আছে।)

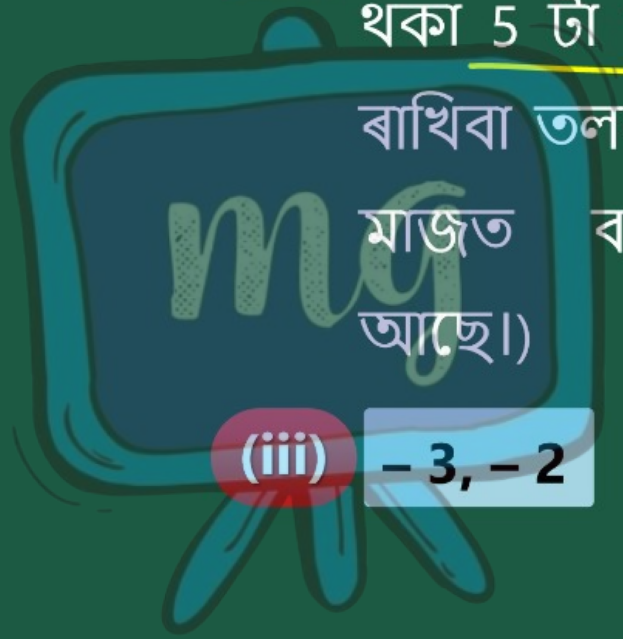

(iii) – 3, – 2

समग्र शिक्षा
Samagra Shiksha
समग्र शिक्षा

Under CSR Support by
ipca | Foundation

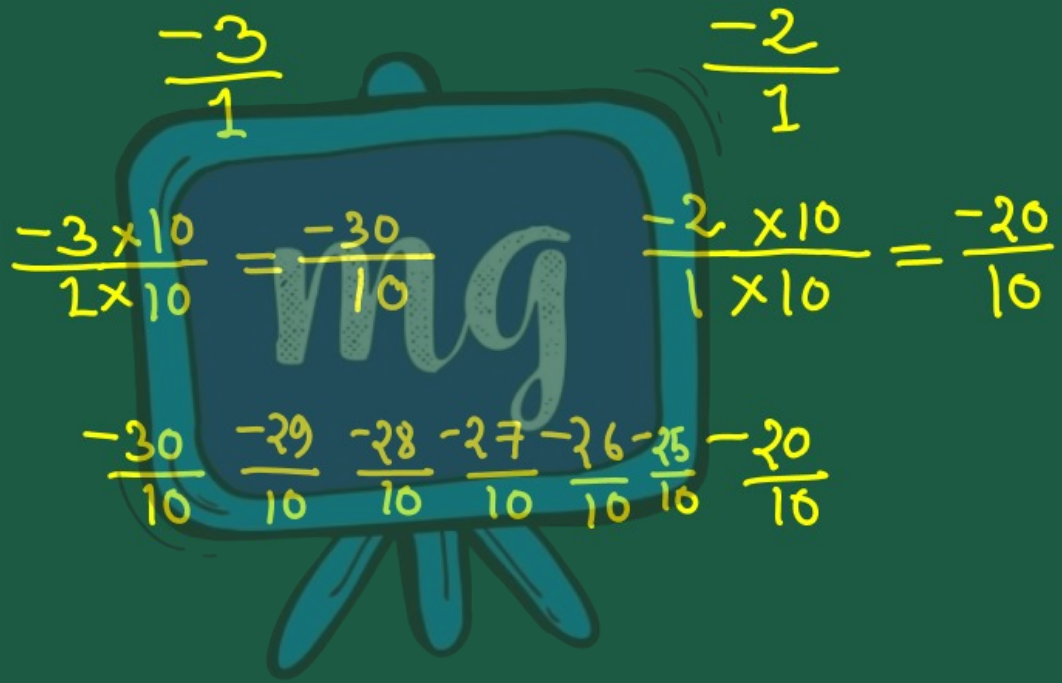

समग्र शिक्षा
Samagra Shiksha
समग्र शिक्षा

Under CSR Support by
ipca | Foundation



समग्र शिक्षा
Samagra Shiksha
সমগ্ৰ শিক্ষা

Under CSR Support by
ipca | Foundation

7. তলৰ পৰিমেয় সংখ্যাবিলাকৰ মাজত থকা 5 টা পৰিমেয় সংখ্যা লিখা: (মনত ৰাখিবা তলৰ প্ৰতিযোৰ পৰিমেয় সংখ্যাৰ মাজত বহুতবোৰ পৰিমেয় সংখ্যা আছে।)

(iv) $\frac{-2}{5}, \frac{-2}{3}$

समग्र शिक्षा
Samagra Shiksha
समग्र शिक्षा

Under CSR Support by
ipca | Foundation

$\frac{-2}{5}$ $\frac{-2}{3}$

$\frac{-2 \times 6}{5 \times 6} = \frac{-12}{30}$ $\frac{-12}{30}$ $-13/30$ $-14/30$ $-15/30$

$\frac{-2 \times 10}{3 \times 10} = \frac{-20}{30}$ $\frac{-20}{30}$ $-16/30$ $-17/30$

समग्र शिक्षा
Samagra Shiksha
সমগ্ৰ শিক্ষা

Under CSR Support by
ipca | Foundation

7. তলৰ পৰিমেয় সংখ্যাবিলাকৰ মাজত থকা 5 টা পৰিমেয় সংখ্যা লিখা: (মনত ৰাখিবা তলৰ প্ৰতিযোৰ পৰিমেয় সংখ্যাৰ মাজত বহুতবোৰ পৰিমেয় সংখ্যা আছে।)

(v) $\frac{5}{8}, \frac{3}{7}$

समग्र शिक्षा
Samagra Shiksha
समग्र शिक्षा

Under CSR Support by
ipca | Foundation

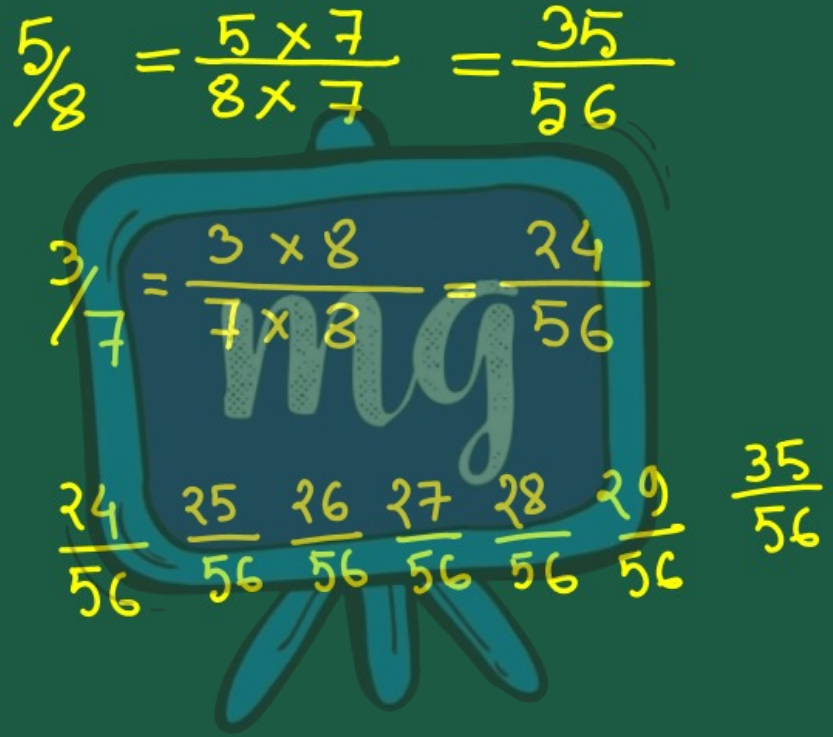

समग्र शिक्षा
Samagra Shiksha
সমগ্ৰ শিক্ষা

Under CSR Support by
ipca | Foundation

8. সংখ্যাৰেখাত তলত দিয়া পৰিমেয় সংখ্যাকেইটা বহুওৱা —

(i) $\frac{2}{3}$

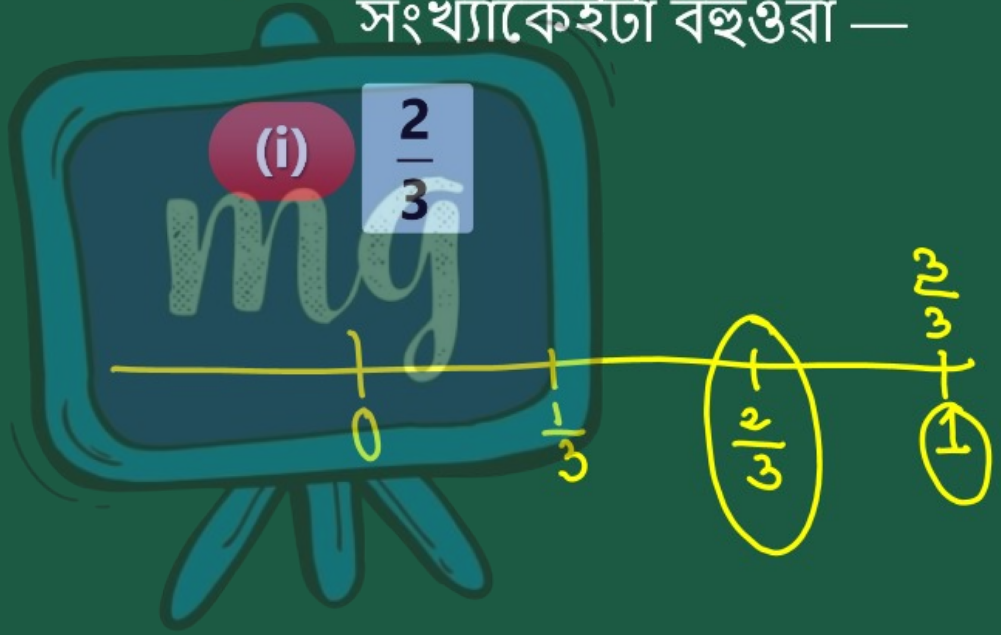

समग्र शिक्षा
Samagra Shiksha
সমগ্র শিক্ষা

Under CSR Support by
ipca | Foundation

8. সংখ্যাৰেখাত তলত দিয়া পৰিমেয় সংখ্যাকেইটা বহুওৱা —

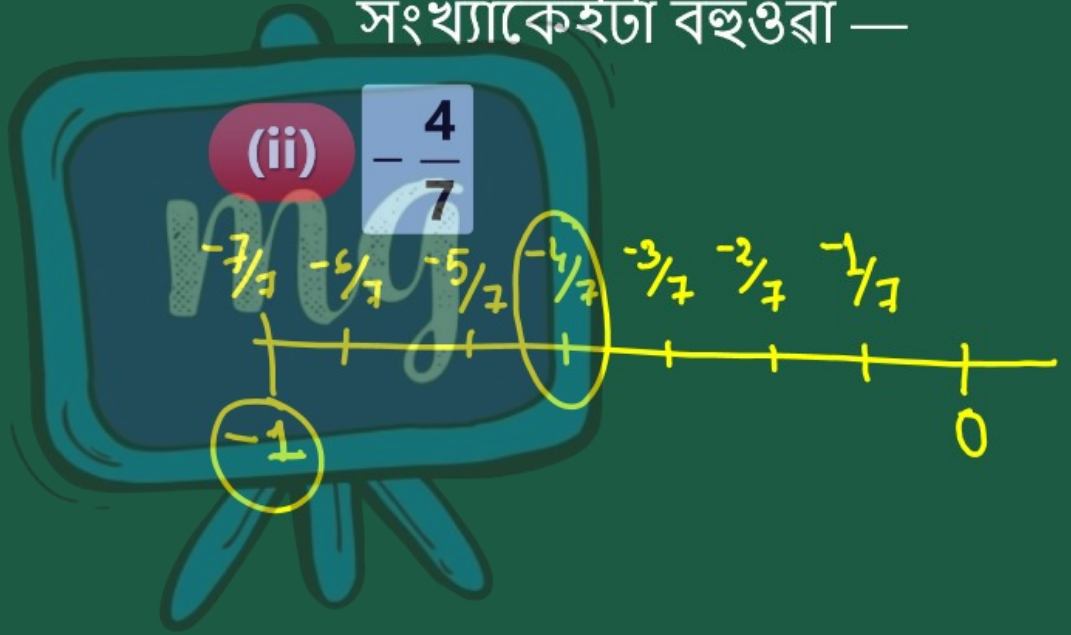

समग्र शिक्षा
Samagra Shiksha
সমগ্র শিক্ষা

Under CSR Support by
ipca | Foundation

8. সংখ্যাৰেখাত তলত দিয়া পৰিমেয় সংখ্যাকেইটা বহুওৱা —

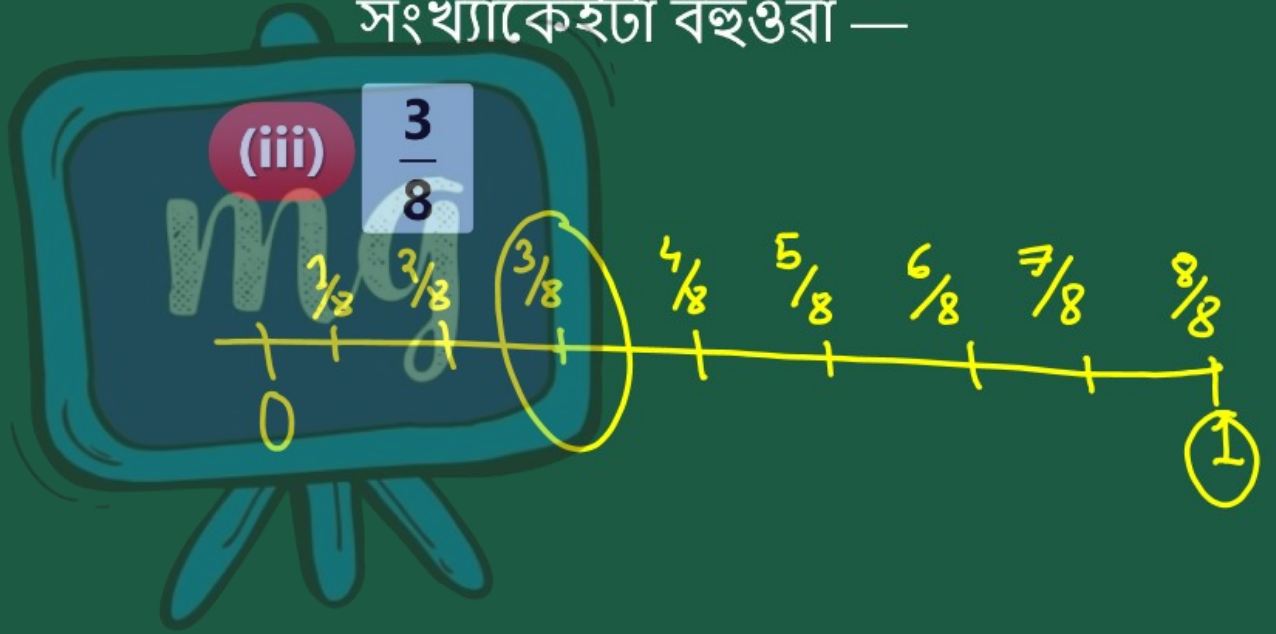

समग्र शिक्षा
Samagra Shiksha
সমগ্র শিক্ষা

Under CSR Support by
ipca | Foundation

8. সংখ্যাৰেখাত তলত দিয়া পৰিমেয় সংখ্যাকেইটা বহুওৱা —

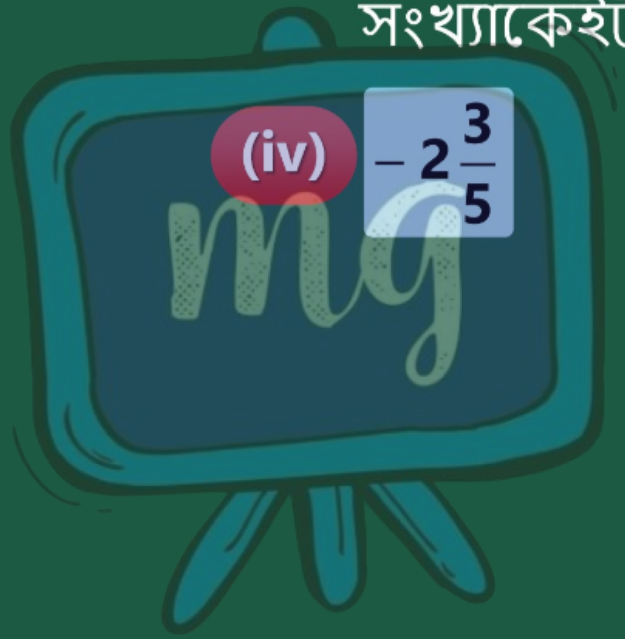

समग्र शिक्षा
Samagra Shiksha
समग्र शिक्षा

Under CSR Support by
ipca | Foundation

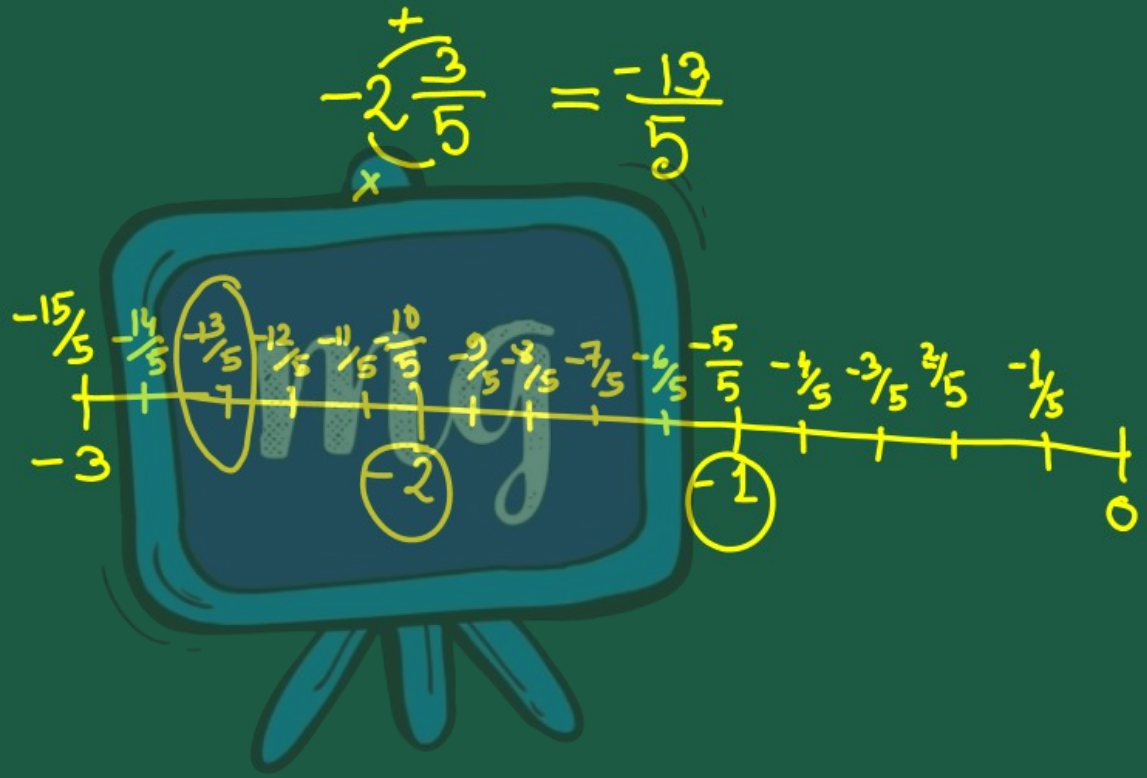

समग्र शिक्षा
Samagra Shiksha
সমগ্র শিক্ষা

Under CSR Support by
ipca | Foundation

8. সংখ্যাৰেখাত তলত দিয়া পৰিমেয় সংখ্যাকেইটা বহুওৱা —

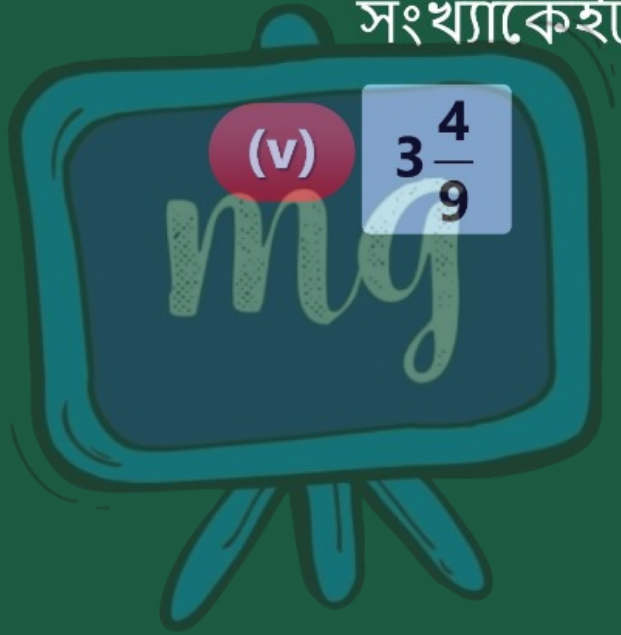

समग्र शिक्षा
Samagra Shiksha
समग्र शिक्षा

Under CSR Support by
ipca | Foundation

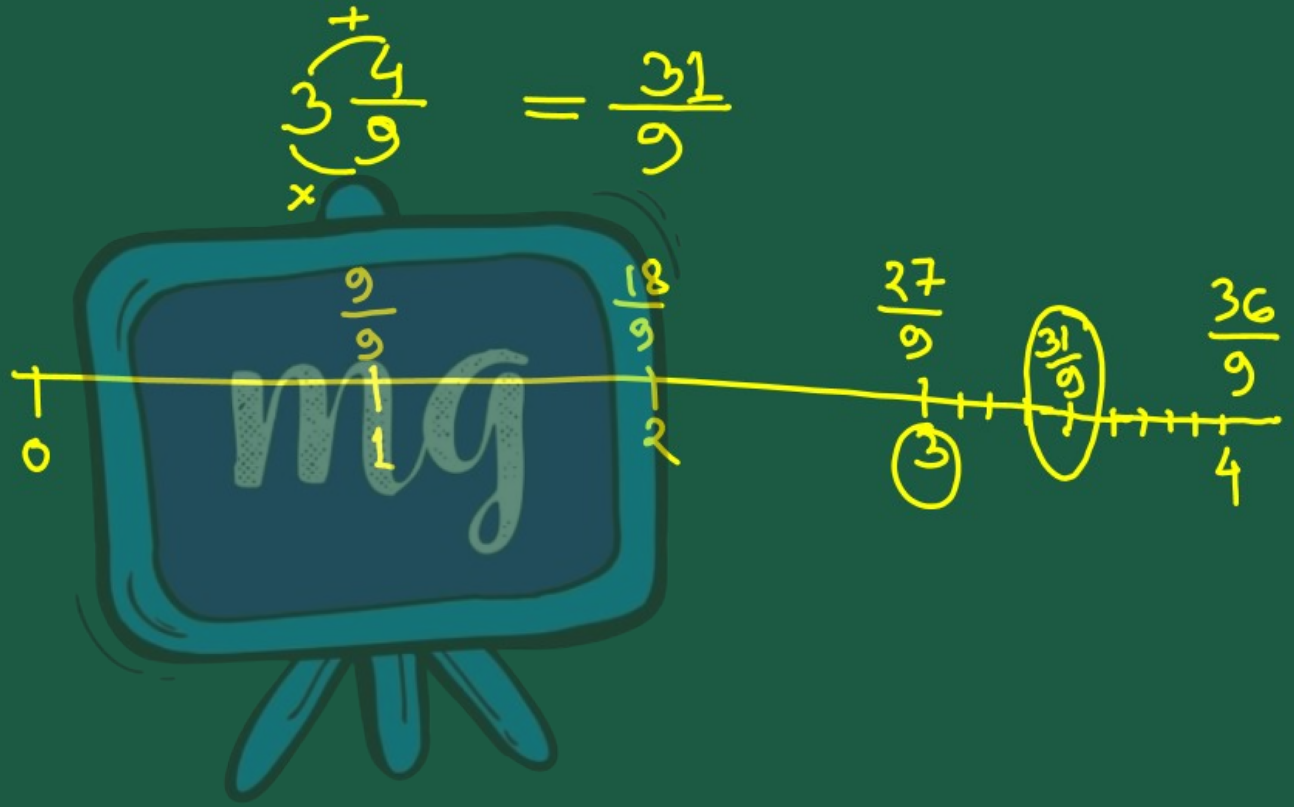

समग्र शिक्षा
Samagra Shiksha
সমগ্ৰ শিক্ষা

Under CSR Support by
ipca | Foundation

9. 0 ৰ সোঁহাতে থকা এটা পৰিমেয় সংখ্যা $\frac{31}{5}$।
0 ৰ বাঁওহাতে এই সমান দূৰত্বত থকা পৰিমেয় সংখ্যাটো কি? এই পৰিমেয় সংখ্যা দুটাৰ ঠিক সোঁমাজতে থকা পৰিমেয় সংখ্যাটো কি?

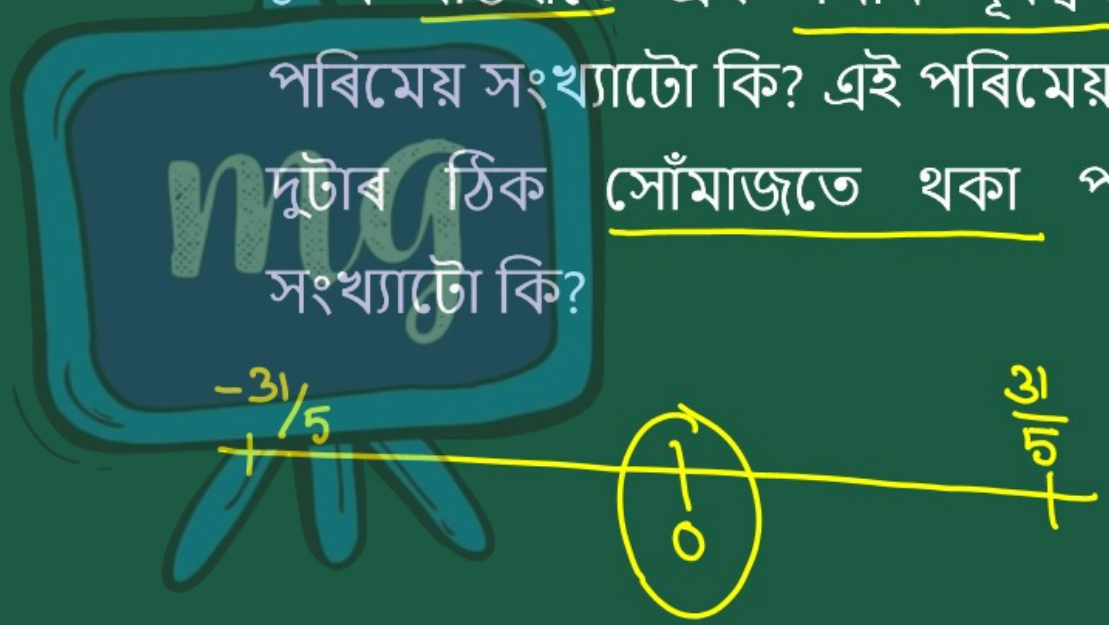

समग्र शिक्षा
Samagra Shiksha
সমগ্ৰ শিক্ষা

Under CSR Support by
ipca | Foundation

10.

(i) $\frac{1}{2}$ তকৈ সৰু যিমান বিলাক অখণ্ড সংখ্যা আছে সেইবিলাকৰ ভিতৰত গৰিষ্ঠ অখণ্ড সংখ্যাটো কি?

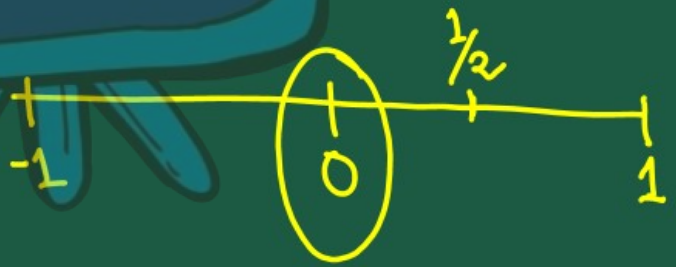

समग्र शिक्षा
Samagra Shiksha
সমগ্ৰ শিক্ষা

Under CSR Support by
ipca | Foundation

10.

(ii) $\frac{1}{2}$ তকৈ ডাঙৰ অখণ্ড সংখ্যাবিলাকৰ ভিতৰত আটাইতকৈ সৰু অখণ্ড সংখ্যাটো কি?

