সমগ্র শিক্ষা
Samagra Shiksha
সমগ্ৰ শিক্ষা

Under CSR Support by
ipca | Foundation



সপ্তম শ্রেণীৰ বাবে

গণিত

অধ্যায় - ৩

তথ্যৰ ব্যৱহাৰ

অংশ – ৯

অনুশীলনী 3.3

ওজশ্রী শইকীয়া

समग्र शिक्षा
Samagra Shiksha
সমগ্ৰ শিক্ষা

Under CSR Support by
ipca | Foundation

3. তলত বিভিন্ন ৰং ভালপোৱা আৰু বেয়া পোৱা ছাত্ৰ-ছাত্ৰীৰ এখন তালিকা প্ৰস্তুত কৰা হ'ল —

ৰঙৰ নাম	নীলা	সেউজীয়া	ৰঙা	বেঙুনীয়া
ভাল পোৱা ছাত্ৰ-ছাত্ৰীৰ সংখ্যা	14	15	12	14
বেয়া পোৱা ছাত্ৰ-ছাত্ৰীৰ সংখ্যা	7	10	6	5

উপযুক্ত স্কেল ব্যৱহাৰ কৰি উক্ত তথ্যৰ পৰা দ্বৈত দণ্ডলেখ অংকন কৰা।

সমগ্র শিক্ষা
Samagra Shiksha
সমগ্র শিক্ষা

Under CSR Support by
ipca | Foundation

স্কেল = 1 পত্ত = 2 জন

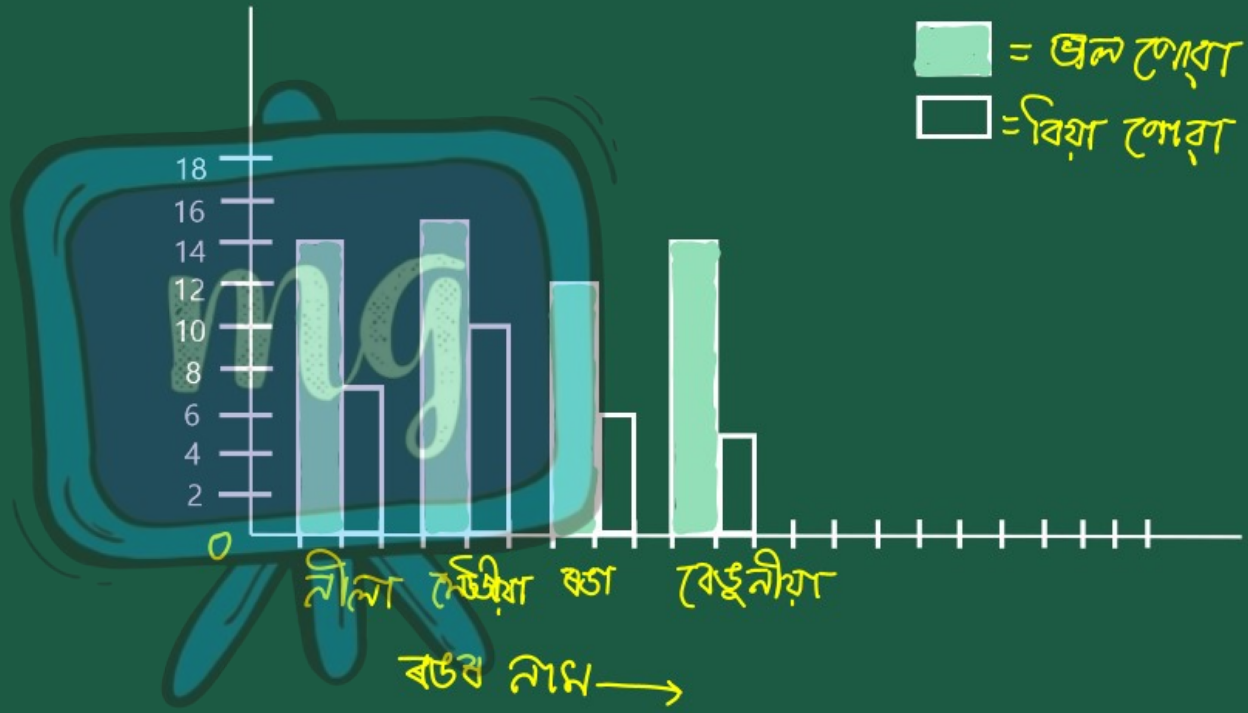

সমগ্র শিক্ষা
Samagra Shiksha
সমগ্র শিক্ষা

Under CSR Support by
ipca | Foundation

4. এজন ছাত্রই ষষ্ঠ আৰু সপ্তম শ্রেণীৰ চাৰিওটা মূল্যায়ণত 200 নম্বৰ ভিতৰত লাভ কৰা নম্বৰসমূহ তলত দিয়া হ'ল। উপযুক্ত স্কেল ব্যৱহাৰ কৰি এটা দ্বৈত দণ্ডলেখ অংকন কৰা আৰু তলৰ প্ৰশ্নবোৰৰ উত্তৰ দিয়া।

শ্রেণী	ইংৰাজী	গণিত	বিজ্ঞান	অসমীয়া	সমাজ বিজ্ঞান
ষষ্ঠ	144	164	160	134	170
সপ্তম	130	175	170	165	150

(i) **কোনটো বিষয়ত ছাত্রজনে আটাইতকৈ উন্নত ফল দেখুৱাইছে?**

সমগ্র শিক্ষা
Samagra Shiksha
সমগ্র শিক্ষা

Under CSR Support by
ipca | Foundation

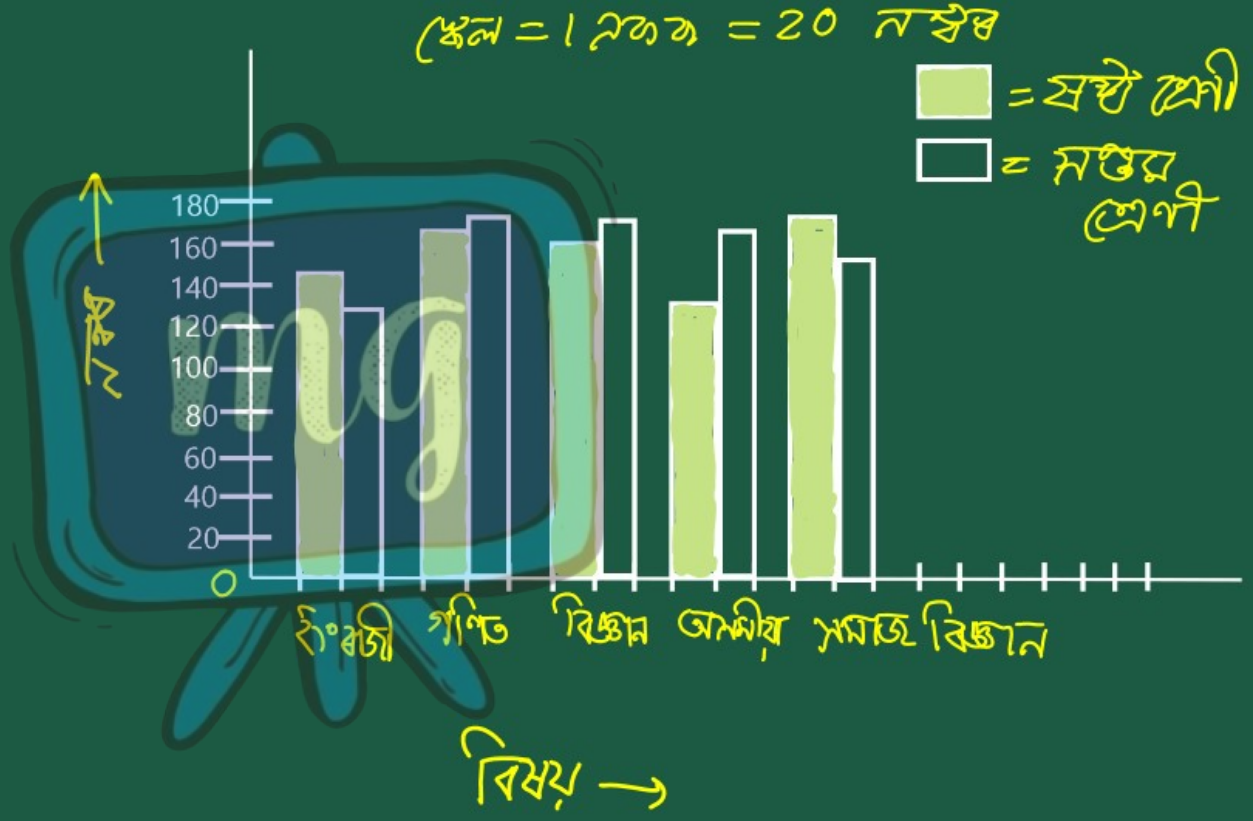

समग्र शिक्षा
Samagra Shiksha
সমগ্ৰ শিক্ষা

Under CSR Support by
ipca | Foundation

4. এজন ছাত্রই ষষ্ঠ আৰু সপ্তম শ্রেণীৰ চাৰিওটা মূল্যায়ণত 200 নম্বৰ ভিতৰত লাভ কৰা নম্বৰসমূহ তলত দিয়া হ'ল। উপযুক্ত স্কেল ব্যৱহাৰ কৰি এটা দ্বৈত দণ্ডলেখ অংকন কৰা আৰু তলৰ প্রশ্নবোৰৰ উত্তৰ দিয়া।

শ্রেণী	ইংৰাজী	গণিত	বিজ্ঞান	অসমীয়া	সমাজ বিজ্ঞান
ষষ্ঠ	144	164	160	134	170
সপ্তম	130	175	170	165	150

(ii) **কোনটো বিষয়ৰ কৃতকার্যতাৰ স্তৰ একেবাৰে নিম্ন?**

সমগ্র শিক্ষা
Samagra Shiksha
সমগ্র শিক্ষা

Under CSR Support by
ipca | Foundation

4. এজন ছাত্রই ষষ্ঠ আৰু সপ্তম শ্রেণীৰ চাৰিওটা মূল্যায়ণত 200 নম্বৰ ভিতৰত লাভ কৰা নম্বৰসমূহ তলত দিয়া হ'ল। উপযুক্ত স্কেল ব্যৱহাৰ কৰি এটা দ্বৈত দণ্ডলেখ অংকন কৰা আৰু তলৰ প্ৰশ্নবোৰৰ উত্তৰ দিয়া।

iii) উ:- গণিত আৰু সপ্তম শ্রেণী

শ্রেণী	ইংৰাজী	গণিত	বিজ্ঞান	অসমীয়া	সমাজ বিজ্ঞান
ষষ্ঠ	144	164	160	134	170
সপ্তম	130	175	170	165	150

(iii) **সর্বাধিক নম্বৰ পোৱা বিষয় আৰু শ্রেণীটো কি?**

সমগ্র শিক্ষা
Samagra Shiksha
সমগ্র শিক্ষা

Under CSR Support by
ipca | Foundation

5. এখন কিতাপৰ দোকানত চাৰিটা বছৰত বিক্ৰী হোৱা ইংৰাজী আৰু অসমীয়া কিতাপৰ সংখ্যা তলত দিয়া হ'ল। তালিকাখনৰ পৰা উপযুক্ত স্কেল ব্যৱহাৰ কৰি দ্বৈত দণ্ডলেখ অংকন কৰা আৰু প্ৰশ্নবোৰৰ উত্তৰ দিয়া।

বছৰ	2014	2015	2016	2017
ইংৰাজী	350	400	300	600
অসমীয়া	500	600	450	650

(i) **আটাইতকৈ বেছি অসমীয়া কিতাপ কোনটো চনত বিক্ৰী হৈছিল?**

समग्र शिक्षा
Samagra Shiksha
সমগ্ৰ শিক্ষা

Under CSR Support by
ipca | Foundation

স্কেল = 1 নকক = 100 খন কিতাপ

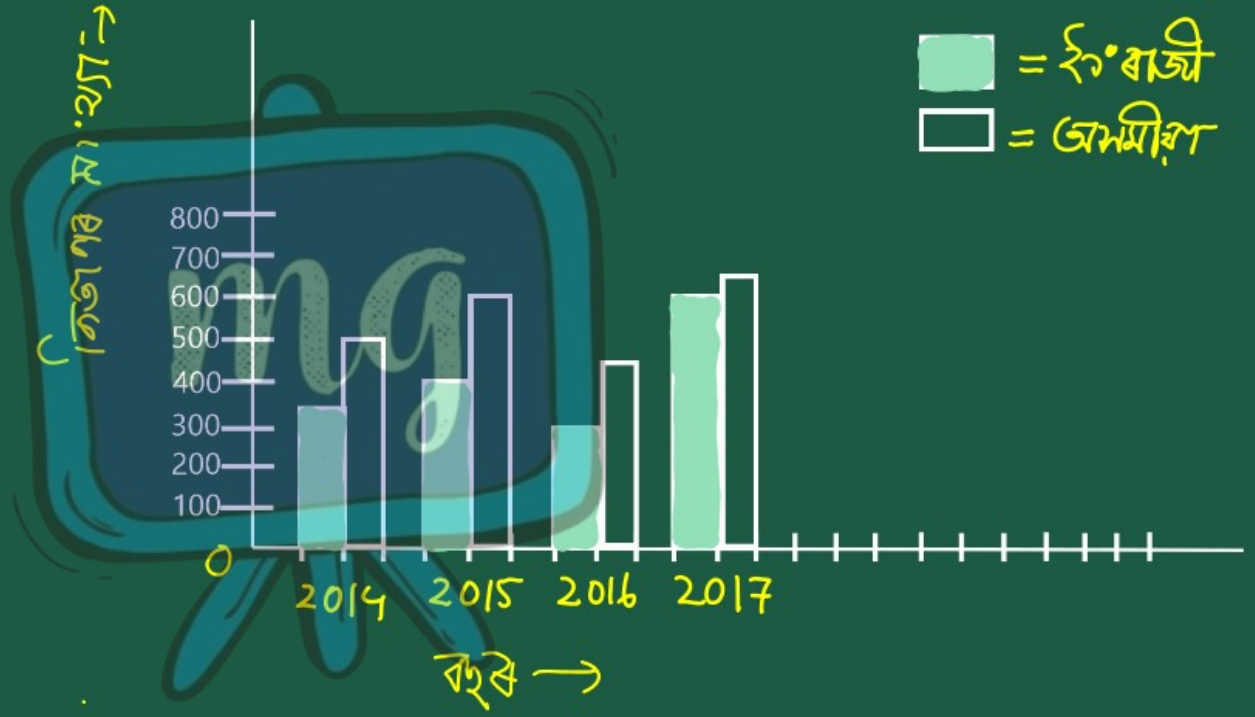

समग्र शिक्षा
Samagra Shiksha
সমগ্ৰ শিক্ষা

Under CSR Support by
ipca | Foundation

5. এখন কিতাপৰ দোকানত চাৰিটা বছৰত বিক্ৰী হোৱা ইংৰাজী আৰু অসমীয়া কিতাপৰ সংখ্যা তলত দিয়া হ'ল। তালিকাখনৰ পৰা উপযুক্ত স্কেল ব্যৱহাৰ কৰি দ্বৈত দণ্ডলেখ অংকন কৰা আৰু প্ৰশ্নবোৰৰ উত্তৰ দিয়া।

বছৰ	2014	2015	2016	2017
ইংৰাজী	350	400	300	600
অসমীয়া	500	600	450	650

(ii) **2016 চনত বিক্ৰী হোৱা অসমীয়া আৰু ইংৰাজী কিতাপৰ পাৰ্থক্য কিমান?**

समग्र शिक्षा
Samagra Shiksha
সমগ্ৰ শিক্ষা

Under CSR Support by
ipca | Foundation

5. এখন কিতাপৰ দোকানত চাৰিটা বছৰত বিক্ৰী হোৱা ইংৰাজী আৰু অসমীয়া কিতাপৰ সংখ্যা তলত দিয়া হ'ল। তালিকাখনৰ পৰা উপযুক্ত স্কেল ব্যৱহাৰ কৰি দ্বৈত দণ্ডলেখ অংকন কৰা আৰু প্ৰশ্নবোৰৰ উত্তৰ দিয়া।

iii) উ:
400 + 600
= 1000 খন

বছৰ	2014	2015	2016	2017
ইংৰাজী	350	400	300	600
অসমীয়া	500	600	450	650

(iii) **2015 চনত মুঠ কিমান কিতাপ বিক্ৰী হৈছিল?**

समग्र शिक्षा
Samagra Shiksha
সমগ্ৰ শিক্ষা

Under CSR Support by
ipca | Foundation

4. এজন ছাত্ৰই ষষ্ঠ আৰু সপ্তম শ্ৰেণীৰ চাৰিওটা মূল্যায়ণত 200 নম্বৰ ভিতৰত লাভ কৰা নম্বৰসমূহ তলত দিয়া হ'ল। উপযুক্ত স্কেল ব্যৱহাৰ কৰি এটা দ্বৈত দণ্ডলেখ অংকন কৰা আৰু তলৰ প্ৰশ্নবোৰৰ উত্তৰ দিয়া।

শ্ৰেণী	ইংৰাজী	গণিত	বিজ্ঞান	অসমীয়া	সমাজ বিজ্ঞান
ষষ্ঠ	144	164	160	134	170
সপ্তম	130	175	170	165	150

(i) **কোনটো বিষয়ত ছাত্ৰজনে আটাইতকৈ উন্নত ফল দেখুৱাইছে?**

समग्र शिक्षा
Samagra Shiksha
সমগ্র শিক্ষা

Under CSR Support by
ipca | Foundation



4. এজন ছাত্রই ষষ্ঠ আৰু সপ্তম শ্রেণীৰ চাৰিওটা মূল্যায়ণত 200 নম্বৰ ভিতৰত লাভ কৰা নম্বৰসমূহ তলত দিয়া হ'ল। উপযুক্ত স্কেল ব্যৱহাৰ কৰি এটা দ্বৈত দণ্ডলেখ অংকন কৰা আৰু তলৰ প্রশ্নবোৰৰ উত্তৰ দিয়া।

শ্রেণী	ইংৰাজী	গণিত	বিজ্ঞান	অসমীয়া	সমাজ বিজ্ঞান
ষষ্ঠ	144	164	160	134	170
সপ্তম	130	175	170	165	150

(ii) **কোনটো বিষয়ৰ কৃতকার্যতাৰ স্তৰ একেবাৰে নিম্ন?**

4. এজন ছাত্রই ষষ্ঠ আৰু সপ্তম শ্রেণীৰ চাৰিওটা মূল্যায়ণত 200 নম্বৰ ভিতৰত লাভ কৰা নম্বৰসমূহ তলত দিয়া হ'ল। উপযুক্ত স্কেল ব্যৱহাৰ কৰি এটা দ্বৈত দণ্ডলেখ অংকন কৰা আৰু তলৰ প্রশ্নবোৰৰ উত্তৰ দিয়া।

শ্রেণী	ইংৰাজী	গণিত	বিজ্ঞান	অসমীয়া	সমাজ বিজ্ঞান
ষষ্ঠ	144	164	160	134	170
সপ্তম	130	175	170	165	150

(iii) **সর্বাধিক নম্বৰ পোৱা বিষয় আৰু শ্রেণীটো কি?**

Under CSR Support by
ipca | Foundation

5. এখন কিতাপৰ দোকানত চাৰিটা বছৰত বিক্ৰী হোৱা ইংৰাজী আৰু অসমীয়া কিতাপৰ সংখ্যা তলত দিয়া হ'ল। তালিকাখনৰ পৰা উপযুক্ত স্কেল ব্যৱহাৰ কৰি দ্বৈত দণ্ডলেখ অংকন কৰা আৰু প্ৰশ্নবোৰৰ উত্তৰ দিয়া।

বছৰ	2014	2015	2016	2017
ইংৰাজী	350	400	300	600
অসমীয়া	500	600	450	650

(i) **আটাইতকৈ বেছি অসমীয়া কিতাপ কোনটো চনত বিক্ৰী হৈছিল?**

समग्र शिक्षा
Samagra Shiksha
समग्र शिक्षा

Under CSR Support by
ipca | Foundation



Under CSR Support by
ipca | Foundation

5. এখন কিতাপৰ দোকানত চাৰিটা বছৰত বিক্ৰী হোৱা ইংৰাজী আৰু অসমীয়া কিতাপৰ সংখ্যা তলত দিয়া হ'ল। তালিকাখনৰ পৰা উপযুক্ত স্কেল ব্যৱহাৰ কৰি দ্বৈত দণ্ডলেখ অংকন কৰা আৰু প্ৰশ্নবোৰৰ উত্তৰ দিয়া।

বছৰ	2014	2015	2016	2017
ইংৰাজী	350	400	300	600
অসমীয়া	500	600	450	650

(ii) **2016 চনত বিক্ৰী হোৱা অসমীয়া আৰু ইংৰাজী কিতাপৰ পাৰ্থক্য কিমান?**

समग्र शिक्षा
Samagra Shiksha
সমগ্ৰ শিক্ষা

Under CSR Support by
ipca | Foundation

5. এখন কিতাপৰ দোকানত চাৰিটা বছৰত বিক্ৰী হোৱা ইংৰাজী আৰু অসমীয়া কিতাপৰ সংখ্যা তলত দিয়া হ'ল। তালিকাখনৰ পৰা উপযুক্ত স্কেল ব্যৱহাৰ কৰি দ্বৈত দণ্ডলেখ অংকন কৰা আৰু প্ৰশ্নবোৰৰ উত্তৰ দিয়া।

বছৰ	2014	2015	2016	2017
ইংৰাজী	350	400	300	600
অসমীয়া	500	600	450	650

(iii) **2015 চনত মুঠ কিমান কিতাপ বিক্ৰী হৈছিল?**