समग्र शिक्षा
Samagra Shiksha
সমগ্ৰ শিক্ষা

Under CSR Support by
ipca | Foundation

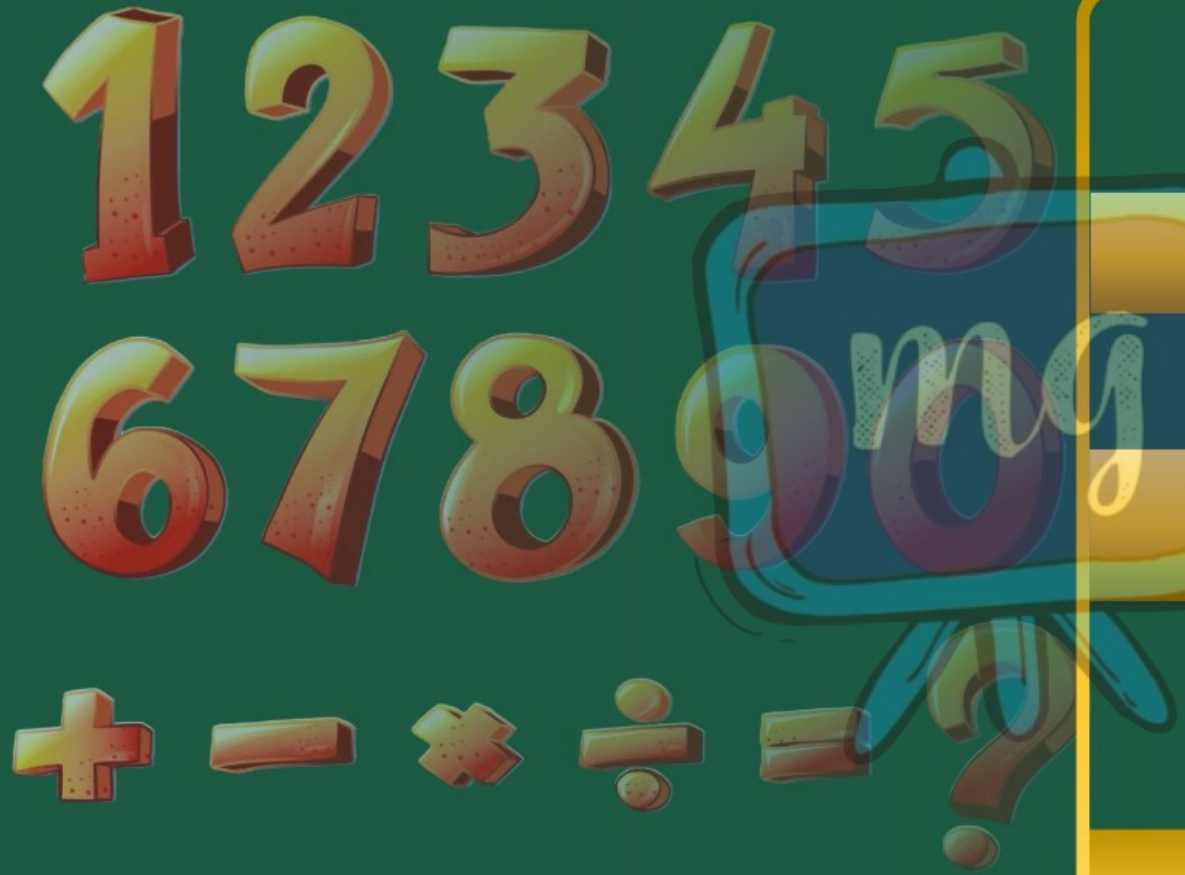

সপ্তম শ্রেণীৰ বাবে

গণিত

অধ্যায় - ২

ভগ্নাংশ আৰু দশমিক

অংশ – ১৪

অনুশীলনী ২.৩

ওজশ্রী শইকীয়া

समग्र शिक्षा
Samagra Shiksha
সমগ্ৰ শিক্ষা

Under CSR Support by
ipca | Foundation

4. টকাত প্ৰকাশ কৰা —

(i) **5 পইচা**

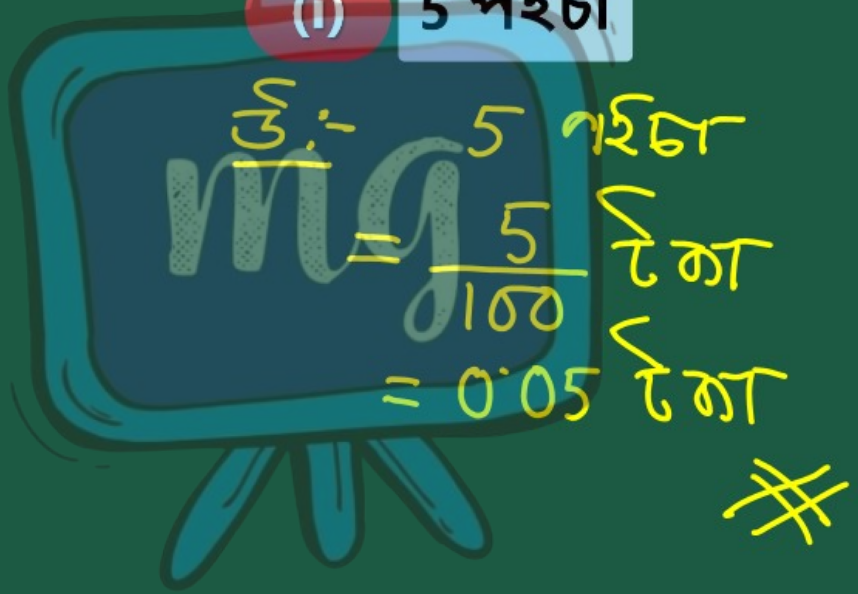

সমগ্র শিক্ষা
Samagra Shiksha
সমগ্র শিক্ষা

Under CSR Support by
ipca | Foundation

4. টকাত প্ৰকাশ কৰা —

(ii) 5 টকা 5 পইচা

5·00
0·05
5·05

উঃ— 5 টকা 5 পইচা
= 5 টকা + $\frac{5}{100}$ টকা
= (5 + 0·05) টকা
= 5·05 টকা //

সমগ্র শিক্ষা
Samagra Shiksha
সমগ্র শিক্ষা

Under CSR Support by
ipca | Foundation

4. টকাত প্ৰকাশ কৰা —

(iii) 55 টকা 55 পইচা

উঃ- 55 টকা 55 পইচা

= 55 টকা + $\frac{55}{100}$ টকা

= (55 + 0·55) টকা

= 55·55 টকা

সমগ্র শিক্ষা
Samagra Shiksha
সমগ্র শিক্ষা

Under CSR Support by
ipca | Foundation

4. টকাত প্ৰকাশ কৰা —

(iv) **50 টকা 50 পইচা**

উঃ- 50 টকা 50 পইচা

= 50 টকা + $\frac{50}{100}$ টকা

= (50 + 0·50) টকা

= 50·50 টকা

সমগ্র শিক্ষা
Samagra Shiksha
সমগ্র শিক্ষা

Under CSR Support by
ipca | Foundation

5. কোনটো ডাঙৰ? মুখে মুখে উত্তৰ দিয়া —

(i) 0.2 আৰু 0.02

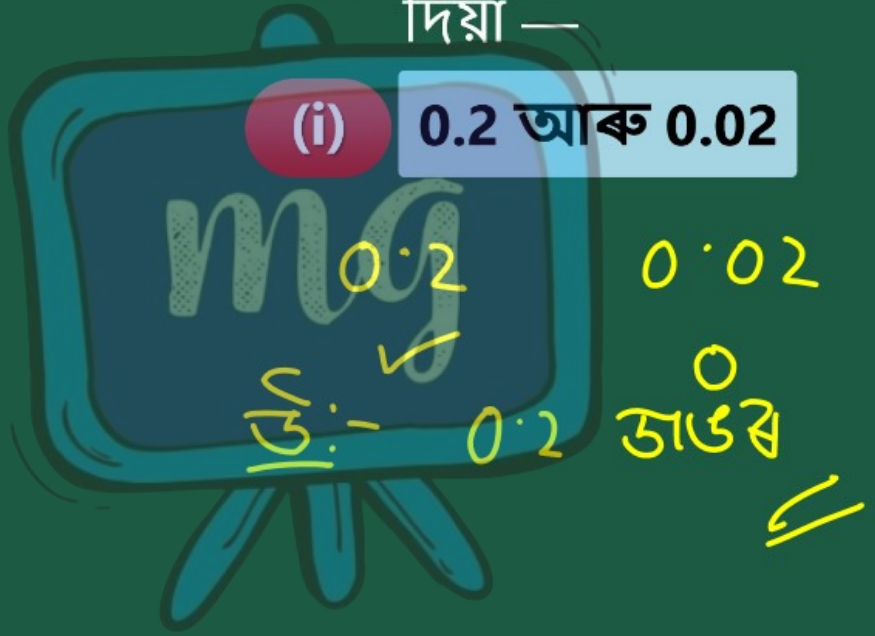

সমগ্র শিক্ষা
Samagra Shiksha
সমগ্র শিক্ষা

Under CSR Support by
ipca | Foundation

5. কোনটো ডাঙৰ? মুখে মুখে উত্তৰ দিয়া —

(ii) **3.03 আৰু 3.30**

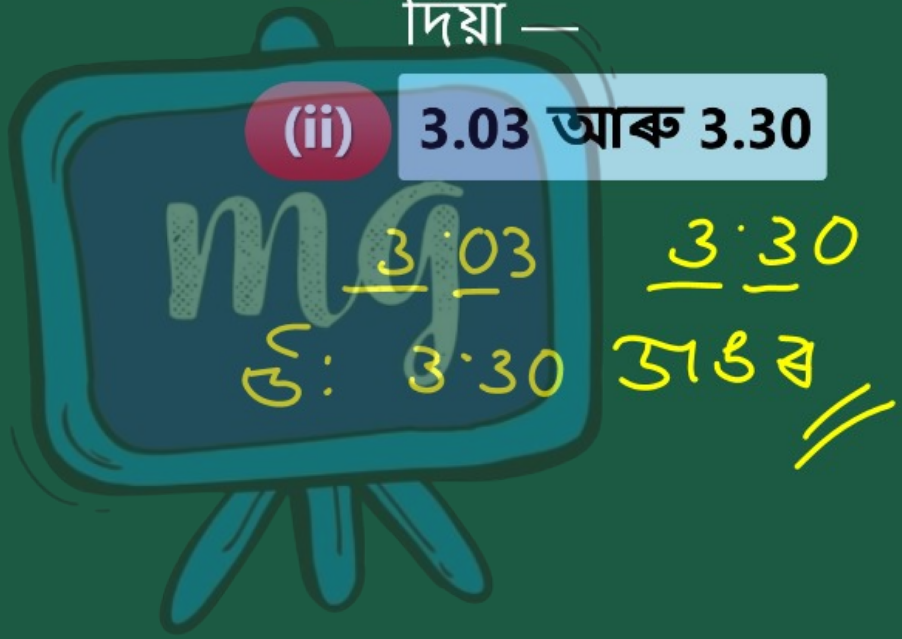

সমগ্র শিক্ষা
Samagra Shiksha
সমগ্র শিক্ষা

Under CSR Support by
ipca | Foundation

5. কোনটো ডাঙৰ? মুখে মুখে উত্তৰ দিয়া —

(iii) 5 আৰু 0.5

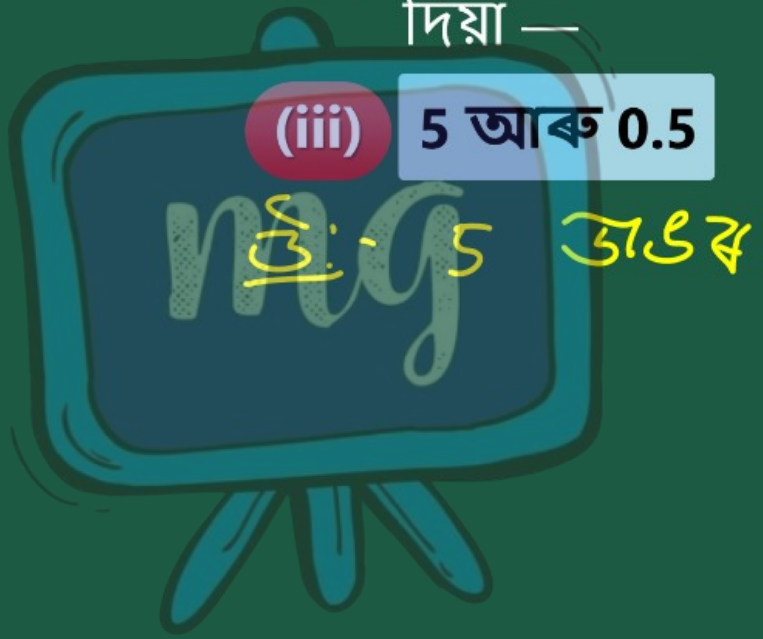

समग्र शिक्षा
Samagra Shiksha
সমগ্ৰ শিক্ষা

Under CSR Support by
ipca | Foundation

5. কোনটো ডাঙৰ? মুখে মুখে উত্তৰ দিয়া —

(iv) **0.4 আৰু 0.44**

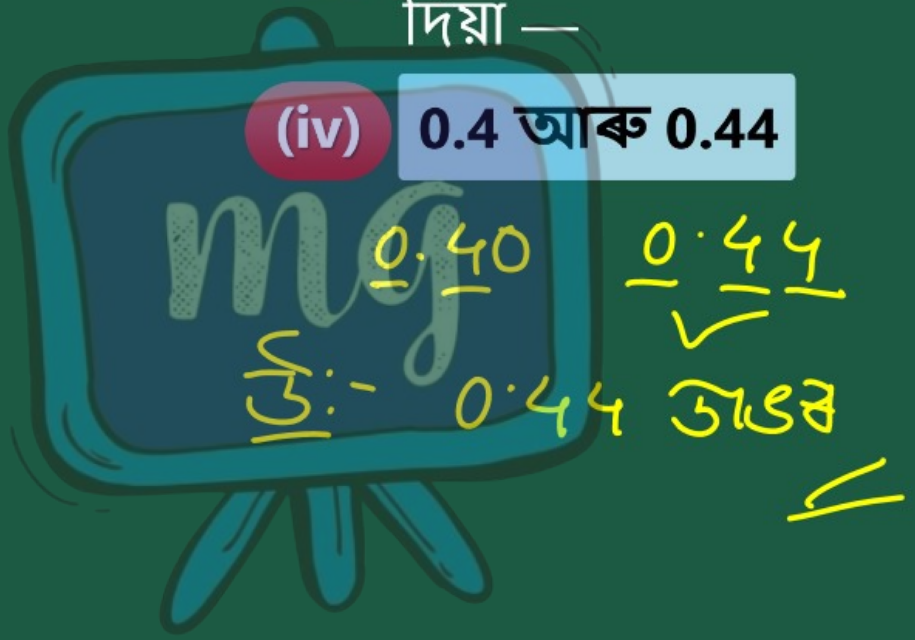

সমগ্র শিক্ষা
Samagra Shiksha
সমগ্র শিক্ষা

Under CSR Support by
ipca | Foundation

6. বার্ষিক খেল-ধেমালিৰ ল'ৰাৰ দীঘল জাপ প্রতিযোগিতাত ৰক্তিমে 3.3 মিটাৰ আৰু প্রাঞ্জলে 333 চে মি দূৰত্ব জপিয়ালে। কোনে বেছি জপিয়ালে আৰু কিমান বেছি জপিয়ালে?

3·30
3·33

সমাধান,

ৰক্তিমে জপিয়ালে = 3·3 মিটাৰ

প্রাঞ্জলে ,, = 333 চে·মি

$= \frac{333}{100}$ মি

= 3·33 মি

समग्र शिक्षा
Samagra Shiksha
সমগ্র শিক্ষা

Under CSR Support by
ipca | Foundation

∴ প্রাঞ্জলে বেহুঁ জলিয়াইছিলে।

