समग्र शिक्षा
Samagra Shiksha
সমগ্ৰ শিক্ষা

Under CSR Support by
ipca | Foundation

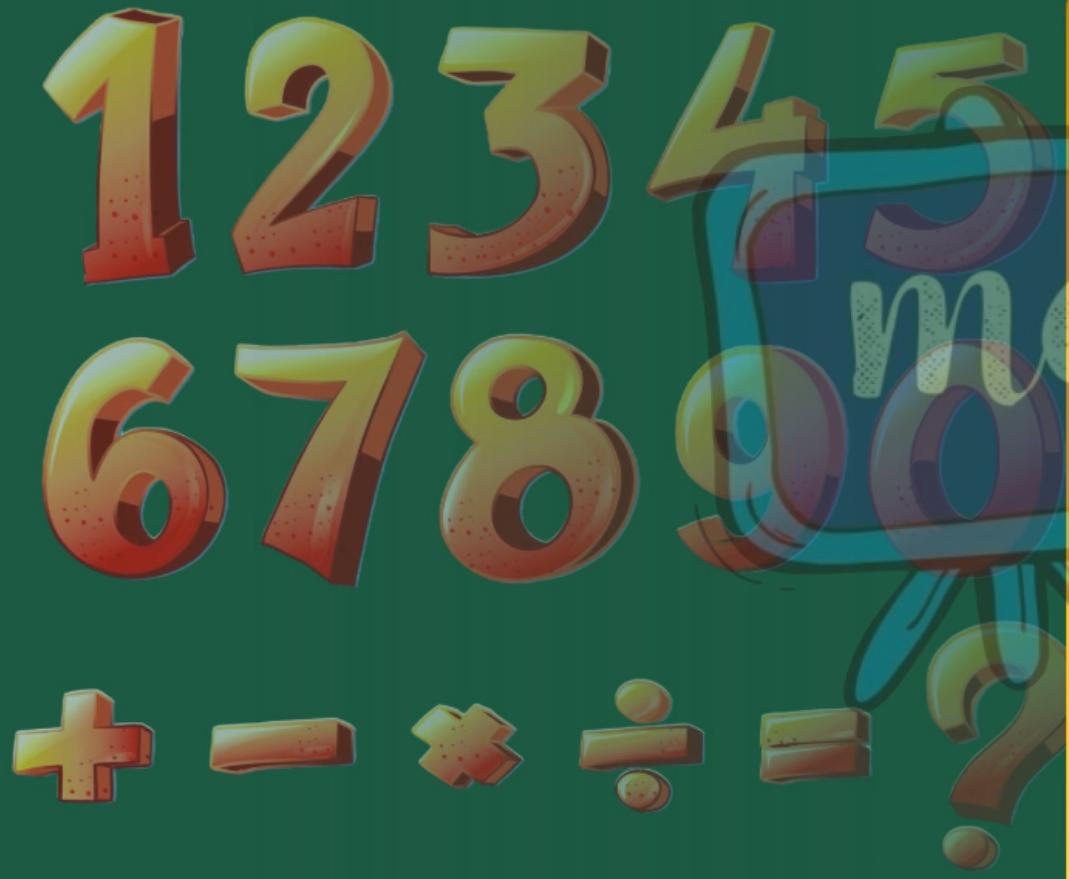

সপ্তম শ্রেণীৰ বাবে

গণিত

অধ্যায় - ১

অখণ্ড সংখ্যা

অংশ – ৩

সংখ্যা

ওজশ্রী শইকীয়া

समग्र शिक्षा
Samagra Shiksha
সমগ্ৰ শিক্ষা

Under CSR Support by
ipca | Foundation



10. এজন মানুহে A স্থানৰ পৰা 14 কিলোমিটাৰ পূবে গ'ল। কিন্তু আন এজন মানুহে A স্থানৰ পৰা 6 কিলোমিটাৰ পশ্চিমে গ'ল। তেতিয়া তেওঁলোকৰ দূৰত্বৰ অন্তৰ কি হ'ব?

উত্তৰ:- এজন মানুহ A স্থানৰ পৰা পূবে গ'ল = 14 km
আনজন মানুহ A ” ” পশ্চিমে ” = 6 km
∴ তেওঁলোকৰ দূৰত্ব অন্তৰ হ'ব = 14 + 6
= 20 km

समग्र शिक्षा
Samagra Shiksha
সমগ্ৰ শিক্ষা

Under CSR Support by
ipca | Foundation

11. এজন মানুহৰ হাতত 35 টকা জমা আছে কিন্তু আন এজনৰ 40 টকা ধাৰ আছে। প্ৰথমজন মানুহ দ্বিতীয়জন মানুহতকৈ কিমান চহকী?

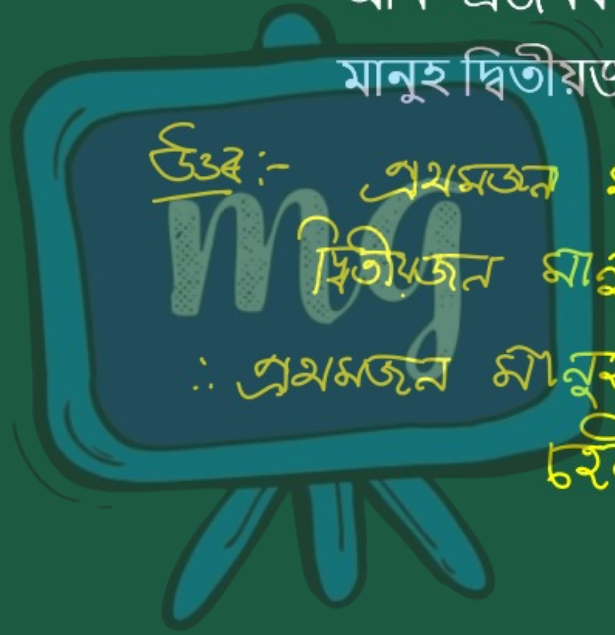

উত্তৰ:- প্রথমজন মানুহৰ হাতত জমা আছে = 35 টকা
দ্বিতীয়জন মানুহৰ ধাৰ আছে = -40 টকা
∴ প্রথমজন মানুহ দ্বিতীয়জন মানুহতকৈ
চহকী হ'ব = 35 + 40
= 75 টকা

সমগ্র শিক্ষা
Samagra Shiksha
সমগ্র শিক্ষা

Under CSR Support by
ipca | Foundation

12. কোনো এটা মঙলবাৰে পুৱা 5 বজাত গুৱাহাটীত তাপমাত্ৰা আছিল 25°C। কিন্তু বিয়লি 2 বজাত তাপমাত্ৰা 8°C বাঢ়িল আৰু ৰাতি 10 বজাত 3°C কমি তাপমাত্ৰা কমিল। বুধবাৰে দুপৰীয়া 12 বজাৰ পিছত তাপমাত্ৰা পুনৰ 5°C বাঢ়িলে। এই সময়ত তাপমাত্ৰা কিমান হ'ল?

উত্তৰ:- মঙলবাৰে পুৱা 5 বজাত তাপমাত্ৰা আছিল = 25°C

বিয়লি 2 বজাত তাপমাত্ৰা বাঢ়িল = 8°C

ৰাতি 10 ,, ,, কমিল = −3°C

বুধবাৰে দুপৰীয়া 12 বজাত তাপমাত্ৰা বাঢ়িল = 5°C

∴ অৱশেষত তাপমাত্ৰা হ'ব = 25°C + 8°C − 3°C + 5°C

= (25 + 8 + 5) − 3°C

= 38°C − 3°C = 35°C //

সমগ্র শিক্ষা
Samagra Shiksha
সমগ্র শিক্ষা

Under CSR Support by
ipca | Foundation

13. অনুৰাধাই বেংকত 3,200 টকা জমা থলে আৰু পিছদিনা তাৰে 2,540 টকা উলিয়াই আনিলে। টকাখিনি উলিয়াই অনাৰ পিছত বেংকত অনুৰাধাৰ কিমান টকা জমা থাকিব?

3200
2540
660

উঃ- অনুৰাধাই বেংকত জমা থলে = 3,200 টকা

পিছদিনা অনুৰাধাই উলিয়াই আনিলে = 2,540 টকা

∴ অনুৰাধাৰ বেংকত জমা থাকিব

= 3,200 − 2,540

= 660 টকা

//

সমগ্র শিক্ষা
Samagra Shiksha
সমগ্র শিক্ষা

Under CSR Support by
ipca | Foundation

14. দুটা সংখ্যাৰ যোগফল-5। যদি এটা সংখ্যা 18 হয় আনটো সংখ্যা কিমান হ'ব?

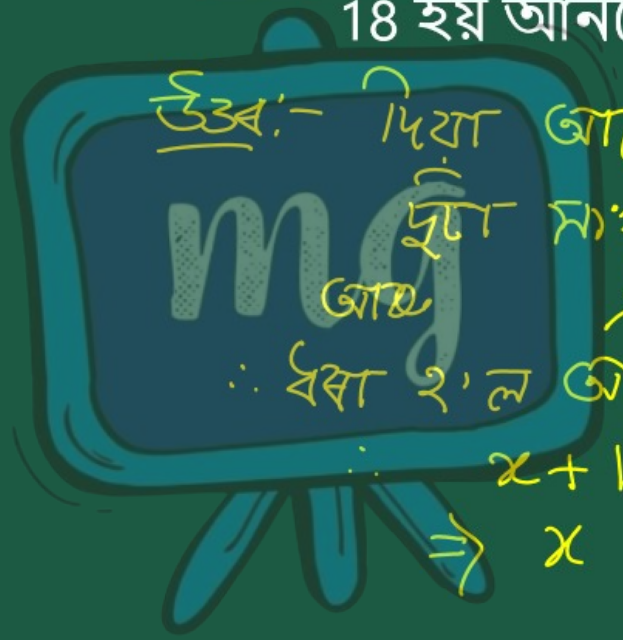

উঃ:- দিয়া আছে,

দুটা সংখ্যাৰ যোগফল $= -5$

আৰু এটা সংখ্যা হ'ল $= 18$

∴ ধৰা হ'ল আনটো সংখ্যা $= x$

$\therefore x + 18 = -5$

$\Rightarrow x = -5 - 18$

$= -23$

∴ আন সংখ্যাটো হ'ল $= -23$

समग्र शिक्षा
Samagra Shiksha
সমগ্ৰ শিক্ষা

Under CSR Support by
ipca | Foundation

15. – 23 ৰ লগত কি যোগ কৰিলে যোগফল 0 হ'ব?



উঃ – 23 + 23 = 0

সমগ্র শিক্ষা
Samagra Shiksha
সমগ্র শিক্ষা

Under CSR Support by
ipca | Foundation

16. দুটা অখণ্ড সংখ্যাৰ যোগফল – 48 তাৰে এটা – 20 হ'লে আনটো কিমান হ'ব?

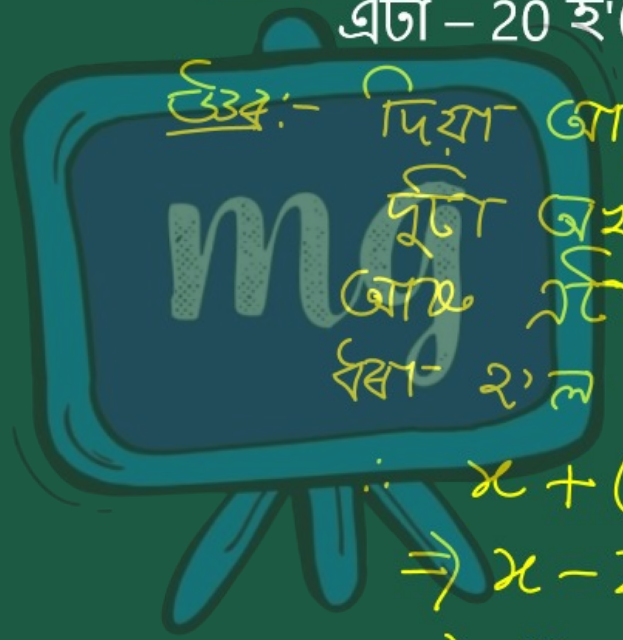

উত্তৰ:- দিয়া আছে,

দুটা অখণ্ড সংখ্যাৰ যোগফল = – 48

আৰু এটা সংখ্যা হ'ল = – 20

ধৰা হ'ল আনটো সংখ্যা = x

$\therefore x + (-20) = -48$

$\Rightarrow x - 20 = -48$

$\Rightarrow x = -48 + 20$

$\therefore x = -28$